LHA DE S. PAULO
São Paulo, sabado, 28 de abril de 1973

Prova de Zoologia

Teste Real

Perguntas e respostas

Supletivo (1.º grau)



Profº Décio Prando

TESTES DE ZOOLOGIA — 1º GRAU

1. Ao examinarmos o esqueleto das aves destaca-se a presença do osso esterno com uma formação em ponta, característica destes animais, e que permite melhor deslocamento da ave durante o voo. Esta formação, semelhante à frente de um navio, denomina-se:

a) mandíbula
b) costela
c) quilha ou carena
d) clavícula

2. A girafa é um mamífero ruminante (estômago dividido em quatro cavidades) que possui membros com número par de dedos (casco bipartido). Por isso recebe a denominação:

a) perissodáctilo
b) artiodáctilo
c) xenartro
d) sirênio

3. Nas aves, os compartimentos que servem para armazenar e triturar o alimento respectivamente são denominados:

a) papo e moela
b) moela e papo
c) retículo e papo
d) papo e barrete

4. Nos répteis crocodilianos o coração apresenta quatro cavidades completamente distintas mas ocorre mistura de sangues, devido a uma união entre os dois troncos aórticos (direito e esquerdo) através do chamado:

Crocodilo

a) forâmen de Botal (oval)
b) forâmen de Pannizza
c) forâmen occipital
d) forâmen magno

5. O coração das aves apresenta:

a) 2 cavidades
b) 3 cavidades
c) 4 cavidades e curvatura da aorta para a esquerda.
d) 4 cavidades e curvatura da aorta para a direita.

6. O camarão apresenta 2 pares de antenas (tetrácero), exoesqueleto quitinoso e respiração do tipo:

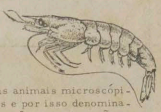

a) traqueal
b) pulmonar
c) branquial
d) cutânea

Abaixo estão representados dois animais microscópicos constituídos de uma célula apenas e por isso denominados PROTOZOÁRIOS. Um deles é patogênico e outro não.

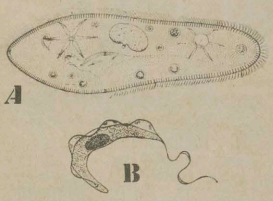

7. O protozoário não patogênico é o animal A e recebe denominação:

a) Trypanosoma Cruzi
b) Paramecium caudatum
c) Amoeba proteus
d) Stentor sp.

8. O protozoário B é causador da Doença de Chagas e tem a seguinte denominação científica:

a) Balantidium coli
b) Entamoeba histolytica
c) Trypanosoma Cruzi
d) Leishmania brasiliensis

9. A minhoca (esquema) abaixo tem respiração cutânea, não apresenta coração e possui circulação:



a) lacunar
b) fechada
c) aberta
d) incompleta

10. Abaixo temos as diversas fases de desenvolvimento por que passa a borboleta até atingir a fase adulta. Este é um exemplo de metamorfose.



a) incompleta
b) cíclica
c) completa
d) temporária

RESPOSTAS

1 - C	6 - C
2 - B	7 - B
3 - A	8 - C
4 - B	9 - B
5 - D	10 - C



Preparado pelo prof. Décio Prando do

curso módulo
rua nossa senhora da lapa, 119 - tel. 260-4109
rua antonio raposo, 30 - lapa

para a FOLHA DE S.PAULO

instituto de arte contemporânea